الجمهورية الجزائرية الديمقراطية الشعبية

وزارة التربية الوطنية — الديوان الوطني للامتحانات والمسابقات

امتحان بكالوريا التعليم الثانوي — دورة: 2016

الشعبة: آداب وفلسفة

اختبار في مادة: التاريخ والجغرافيا — المدة: 04 سا و30د

على المترشح أن يختار أحد الموضوعين التاليين:

الموضوع الأول

يحتوي الموضوع الأول على صفحتين (الصفحة 1 من 5 والصفحة 2 من 5)

التاريخ:

الجزء الأول: (06 نقاط)

«... بلغ تدهور العلاقات بين **الشرق** والغرب أقصى درجاته أثناء حصار برلين، حيث كان **الغرب** على استعداد تامّ لاستخدام قدراته العسكرية والنووية ... وكانت هذه الأحداث المتلاحقة بمثابة مقدّمات الحرب الباردة التي أشار إليها "ونستون تشرشل" في الخطاب الذي ألقاه في مارس 1946، وتحدّث فيه عمّا سمّاه **الستار الحديدي**... وبعد سنة من هذا الخطاب، أعلن "هاري ترومان" عن سياسة تجاه أوروبا عُرِفَتْ بـ**مبدأ ترومان**...»

المرجع: عبد الخالق عبدالله، العالم المعاصر والصراعات الدولية، ، ص 63.

1- اشرح المصطلحات التي تحتها خط في النّص.

2- عرّف بالشخصيات التالية: **جورج مارشال، عبان رمضان، جواهر لال نهرو، جاك سوستال.**

3- أكمل الجدول الآتي:

الحدث	تاريخه
تأسيس اللجنة الثورية للوحدة و العمل	.....
.....	23 جويلية 1952
مشروع قسنطينة	.....
.....	11 ديسمبر 1960

الجزء الثاني: (04 نقاط)

في إطار مخطّطاتها الاستعمارية للقضاء على الثورة الجزائرية، أقدمت فرنسا على طرح جملة من المشاريع السياسية والاقتصادية.

المطلوب:

انطلاقا من العبارة، واعتمادا على ما درست، اكتب مقالا تاريخيا تبيّن فيه:

1- المشاريع السياسية والاقتصادية الفرنسية للقضاء على الثورة.

2- ردّ فعل الثورة على هذه المشاريع.

الجغرافيا:

الجزء الأول: (06 نقاط)

«...يشكّل المحور الممتد من "بوسطن" إلى "بلتيمور" و "ريشموند" **واجهة أطلسية** ... تليها منطقة البحيرات الكبرى غربا، وهي عبارة عن **مجمّع مدن** ... تلك هي المنطقة التاريخية والحيوية للبلاد ... فيها "واشنطن" العاصمة السياسية، بها مقر **صندوق النقد الدولي** و**البنك العالمي**، ومقر منظّمة الدول الأمريكية... »

المرجع: الكتاب المدرسي للسنة الثالثة ثانوي، طبعة 2011، ص50.

1- اشرح المصطلحات التي تحتها خط في النّص.

2- إليك جدولا يمثل نسب المبادلات التجارية للجزائر حسب المناطق لسنة 2011.

المنطقة	الإتحاد الأوربي	أمريكا الشمالية	أمريكا الجنوبية	آسيا	إفريقيا والوطن العربي	بقية العالم
الصادرات %	50.76	20.67	5.84	7.35	3.46	11.92
الواردات %	52.10	5.13	8.91	21.8	6.41	5.65

المرجع : الديوان الوطني للإحصاء 2012.

المطلوب:

أ - مثّل معطيات الجدول (الصادرات والواردات) في دائرتين نسبيتين: **نصف القطر ← 3 سم.**

ب- علّق على الرسم.

الجزء الثاني: (04 نقاط)

يعتبر البترول العمود الفقري في التنمية الاقتصادية للدّول المنتجة والمصدّرة له.

المطلوب:

انطلاقا من العبارة، واعتمادا على ما درست، اكتب مقالا جغرافيا تبرز فيه:

1 – أسباب عدم استقرار أسعار البترول.

2 – انعكاسات تراجع أسعار البترول على الدول المصدّرة.

انتهى الموضوع الأول

الموضوع الثاني

يحتوي الموضوع الثاني على 03 صفحات (من الصفحة 3 من 5 إلى الصفحة 5 من 5)

التاريخ:

الجزء الأول: (06 نقاط)

"كانت فترة 1945–1947 من أكثر المراحلِ دِقَّة في **العلاقات الدولية** إذ اتسمت بشكل عام بالتوتر بين حلفاء الأمس في الاتفاق على مبادئ عامة تكون الأساس لتنظيم أوضاع ما بعد الحرب ... وكان عام 1947 أبعد من أن يزيد الشك وسوء الظن المتبادلين بين حلفاء الأمس إذ شهد هذا العام مبدأ ترومان الذي كان الخطوة في تقسيم العالم إلى **معسكرين**، ثم **برنامج مارشال** ودعوة السوفييت إلى إنشاء **الكومنفورم** والخطوات اللاحقة في تكريس هذا الانقسام...".

المرجع: رياض عبد الصمد، العلاقات الدولية في القرن 20 ، ج1، بتصرف ص 125–127.

1– اشرح ما تحته خط في النّص.

2– عرِّف بالشخصيات التالية: **ليونيد بريجنيف – ريتشارد نيكسون– هواري بومدين – الجنرال جياب.**

3– اربط الأحداث المعلمية التالية بتواريخها وأبرِز انعكاساتها:

التاريخ	الحدث	الانعكاسات
09 أوت 1945	وقف إطلاق النار في الجزائر	
20 أوت 1955	تأسيس جامعة الدول العربية	
19 مارس 1962	إلقاء القنبلة الذرية على مدينة ناغازاكي	
22 مارس 1945	هجومات الشمال القسنطيني	

الجزء الثاني: (04 نقاط)

اشتدّ الصّراع بين المعسكرين خلال الفترة الممتدّة ما بين 1947 و 1954 وهدّد بحدوث مواجهة مباشرة بينهما.

المطلوب:

انطلاقا من الفكرة، واعتمادا على ما درست، اكتب مقالا تاريخيا تبرز فيه:

1– مظاهر الصراع في القارتين الأوربية والآسيوية خلال هذه الفترة.

2– أثر تطوّر أسلحة الدّمار الشامل في مستقبل العلاقات بين المعسكرين.

الجغرافيا:

الجزء الأول: (06 نقاط)

«...أجلت الجزائر بالاتفاق مع **الاتحاد الأوربي** دخول **منطقة التبادل الحر** بين الطرفين إلى سنة 2020 ، بعد سنتين من المشاورات بين الطرفين، بعد أن كانت مقررة بموجب **اتفاق الشراكة** في 2017 ، ودخول هذه الاتفاقية حيز التطبيق يؤدي إلى إلغاء **التعريفة الجمركية** لفئة كبيرة من المنتجات الصناعية المفروضة من الجزائر، وينص الاتفاق المتوصل إليه فيما يخص الجانب الفلاحي على إعادة النظر في بعض الحصص التفضيلية للاتحاد الخاصة بالمنتجات الفلاحية والصناعات الغذائية.»

المرجع: جريدة الخبر، العدد 6814/ بتاريخ 24 أوت 2012 ، ص 20.

1- اشرح ما تحته خط في النّص.

2- إليك جدولين يمثلان أهم مناطق التبادل التجاري للجزائر سنة 2014:

أ- جدول الصادرات. الوحدة: **(مليار دولار)**

الدولة	إسبانيا	إيطاليا	فرنسا	بريطانيا	هولندا	الولايات المتحدة الأمريكية
قيمة الصادرات	9,535	8,290	6,949	6,524	5,103	4,827
النسبة المئوية	%15,16	%13,18	%11,05	%8,78	%8,11	%7,68

ب - جدول الواردات. الوحدة: **(مليار دولار)**

الدولة	الصين	فرنسا	إيطاليا	إسبانيا	ألمانيا	الولايات المتحدة الأمريكية
قيمة الواردات	8,242	6,335	5,043	5,030	3,803	2,867
النسبة	%14,07	%10,81	%8,61	%8,59	%6,49	%4,89

المرجع: إحصائيات التجارة الخارجية للجزائر سنة 2014 – المديرية العامة للجمارك.

المطلوب: علِّق على الجدولين.

3- على خريطة أوربا الصمَّاء المرفقة، عيِّن الدول المؤسسة للسوق الأوربية المشتركة سنة 1957 والعضوة في مجموعة الثمانية (G8).

الجزء الثاني: (04 نقاط)

تحتل الولايات المتحدة الأمريكية مركز الصدارة في الاقتصاد العالمي.

المطلوب:

انطلاقا من الفكرة، واعتمادا على ما درست، اكتب مقالا جغرافيا تبرز فيه:

1- دور الزراعة في الاقتصاد الأمريكي.

2- أثر قوة الاقتصاد الأمريكي في الاقتصاد العالمي.

خريطة أوربا

ينجز العمل المطلوب على الخريطة وتعاد مع أوراق الإجابة

انتهى الموضوع الثاني

عناصر الإجابة (الموضوع الأول)	العلامة مجزأة	العلامة مجموع
التاريخ:		
الجزء الأول:		
1/ شرح ما تحته خط:		
الشرق: يقصد به الدول التي تقع في الشرق والتي طبّقت النظام الاشتراكي أثناء الحرب الباردة وكانت تسير في فلك الاتحاد السوفييتي.	0.50	
الغرب: هو الكتلة الغربية بزعامة الولايات المتحدة الأمريكية والتي اعتمدت النظام الرأسمالي كنظام اقتصادي وسياسي، ويشمل بالإضافة إلى الولايات المتحدة الأمريكية، أوروبا الغربية الرأسمالية.	0.50	
الستار الحديدي: مصطلح تاريخي استعمله رئيس الوزراء البريطاني ونستون تشرشل في إحدى محاضراته، ليعبر به مجازا عن الخط الفاصل بين أوربا الشرقية و الغربية.	0.50	
مبدأ ترومان: مساعدات مالية قدرها250 مليون دولار وجهّها الرئيس الأمريكي هاري ترومان سنة 1947 إلى تركيا واليونان التي تهدّدها الحركات الشيوعية المدعّمة من طرف الاتحاد السوفييتي.	0.50	06
2/ الشخصيات:		
– **جورج مارشال** (1880 – 1959): رئيس أركان الجيش الأمريكي خلال الحرب العالمية الثانية والمستشار العسكري لروزفلت، كاتب الدولة للخارجية الأمريكية، واضع مشروع إعادة إعمار أوروبا بعد ح. ع. 2.	0.50	
– **عبان رمضان** (1920–1957): مناضل في حزب الشعب، عضو المنظمة الخاصّة، أحد قادة الثورة الجزائرية، مهندس مؤتمر الصومام، اغتيل سنة 1957 في ظروف غامضة.	0.50	
– **جواهر لال نهرو** (1889–1964): سياسي هندي، رئيس المؤتمر الوطني الهندي، وزير أول(1947–1964)، من أبرز أقطاب حركة عدم الانحياز.	0.50	
– **جاك سوستال:** من أصول يهودية، عيّن واليا عامّا على الجزائر من جانفي1955 إلى فيفري 1956، صاحب مشروع الفرق الإدارية الخاصّة، و كذا المشروع الذي عرف باسمه سنة 1955.	0.50	
3/ جدول الأحداث:		

الحدث	تاريخه	
1954/03/23	تأسيس اللجنة الثورية للوحدة و العمل	0.50
23جويلية 1952	الثورة المصرية	0.50
1958/10/03	مشروع قسنطينة	0.50
11ديسمبر 1960	مظاهرات شعبية في الجزائر أثناء زيارة ديغول	0.50

		الجزء الثاني:
	0.50	**المقدمة:** السياسة الفرنسية للقضاء على الثورة وردّ فعل الثورة عليها (أو أيّة مقدّمة وظيفية).
		1- المشاريع السياسية والاقتصادية الفرنسية للقضاء على الثورة:
		أ- المشاريع السياسية:
	0.25	- مشروع جاك سوستال 1955.
	0.25	- سلم الشجعان 23 أكتوبر 1958 وإنشاء القوّة الثالثة.
04	0.25	- مشروع تقرير المصير 16 سبتمبر 1959.
	0.25	- مشاريع تقسيم الجزائر مثل مشروع 1957، مشروع فصل الصحراء1961.
		ب- المشاريع الاقتصادية:
	0.25	- مشروع جاك سوستال في الأوراس 1955.
	0.25	- مشروع قسنطينة 3 أكتوبر 1958.
		2- ردّ فعل الثورة على هذه المشاريع:
	0.25	- تنظيم الثورة من خلال مؤتمر الصومام 1956.
	0.25	- تكذيب الادّعاءات الفرنسية من خلال وسائل الإعلام.
	0.25	- حشد الدعم الشعبي حول الثورة من خلال الإضرابات والمظاهرات.
	0.25	- إجبار الشعب على رفض المشاريع الفرنسية وتوضيح خطورتها.
	0.25	- التكفّل بالشعب الجزائري، الفئات المحرومة وأسر الشهداء.
	0.25	- تأسيس الحكومة الجزائرية المؤقّتة 1958.
	0.50	**الخاتمة:** فشل المخطّطات الاستعمارية و نجاح الثورة.(أو أيّة خاتمة وظيفية)
		الجغرافيا:
		الجزء الأول:
		1/ شرح ما تحته خط في النص:
	0.50	- **واجهة أطلسية:** هي المنطقة الشمالية الشرقية للولايات المتّحدة الأمريكية المطلّة على المحيط الأطلسي والتي تتميز بحركية اقتصادية و نشاط تجاري واسع وتركيز سكاني.
	0.50	- **مجمع مدن:** (ميغالوبوليس) منطقة حضرية واسعة تجمع الكثير من المدن المتلاصقة

والمترابطة بعلاقات متنوعة مثل الشمال الشرقي للـ و. م. أ.

– **صندوق النقد الدولي:** مؤسسة مالية تأسس في ديسمبر 1945 بموجب اتفاقية بروتون وودز، من مهامه تحديد أسعار صرف العملات و تقديم القروض للدّول الأعضاء وتنسيق السياسات النقدية بينها. 0.50

– **البنك العالمي:** مؤسسة مالية، تأسست في 1946/06/25 في إطار اتفاقية بروتون وودز ومن مهامه تعمير ما دمّرته الحرب العالمية الثانية والمساهمة في تطوير الدول الأعضاء. 0.50

2/ التمثيل البياني والتعليق:

أ– **التمثيل:**

– تحويل النسب إلى درجات.

$$\begin{cases} 100\% \longrightarrow 360° \\ 1\% \longrightarrow س \end{cases} \quad \text{ومنه: } س = \frac{360 \times 1}{100} = 3,6°$$ 2×0.50

الدول	الصادرات	الواردات
الاتحاد الأوروبي	182.7°	187.5°
أمريكا الشمالية	74.4°	18.4°
أمريكا الجنوبية	21.02°	32.07°
آسيا	26.4°	78.48°
إفريقيا والوطن العربي	12.45°	23.07°
بقية العالم	43°	20.34°

– الإنجاز: 0.50

– المفتاح: 0.25

– العنوان: 0.25

ب– **التعليق:**

– ارتفاع نسبة المبادلات التجارية مع دول الاتحاد الأوربي بسبب القرب الجغرافي والرابط التاريخي. 0.50

– احتلال أمريكا الشمالية الرتبة الثانية من حيث الصادرات بحكم حاجة المنطقة لثروات الجزائر (الخام). 0.50

– احتلال آسيا الرتبة الثانية من حيث الواردات بسبب نوعية السلع وانخفاض أسعارها. 0.50

– احتلال الدول العربية والإفريقية أضعف نسبة المبادلات بسبب التقارب الاقتصادي مع الجزائر. 0.50

06

		الجزء الثاني:
	0.50	**المقدمة:** خضوع اقتصاديات وسياسات الأمم لتقلبات أسعار البترول كمنتوج استراتيجي. (أو أيّة مقدّمة وظيفية)
		1- **أسباب عدم استقرار أسعار البترول:**
	0.25	- الجودة والنوعية.
	0.25	- قانون العرض والطلب.
	0.25	- الأوضاع الاقتصادية والسياسية العالمية.
	0.25	- العوامل الطبيعية (طول الفصل البارد).
	0.25	- الاحتكارات (شركات متعددة الجنسيات).
	0.25	- السياسات الطاقوية في دول العالم(بين دور الأوبك من جهة و جهود منظمة الطاقة العالمية من جهة أخرى).
		2- **انعكاسات تراجع أسعار البترول على الدول المصدّرة:**
04	0.25	- تراجع وانخفاض إيراداتها المالية.
	0.25	- الوقوع في أزمات اقتصادية.
	0.25	- اللجوء إلى المديونية.
	0.25	- التبعية للخارج.
	0.25	- بطء النمو الاقتصادي وتراجع فرص الشغل.
	0.25	- عدم استقرار الأوضاع الاجتماعية والسياسية.
	0.50	**الخاتمة:** على هذه الدول البحث عن بدائل جديدة للتخفيف من تقلبات أسعار البترول. (أو أيّة خاتمة وظيفية)
		ملاحظة: تقبل الإجابات الصحيحة الأخرى.

دائرة نسبية تمثل نسبة الصادرات للجزائر حسب المناطق لسنة 2011

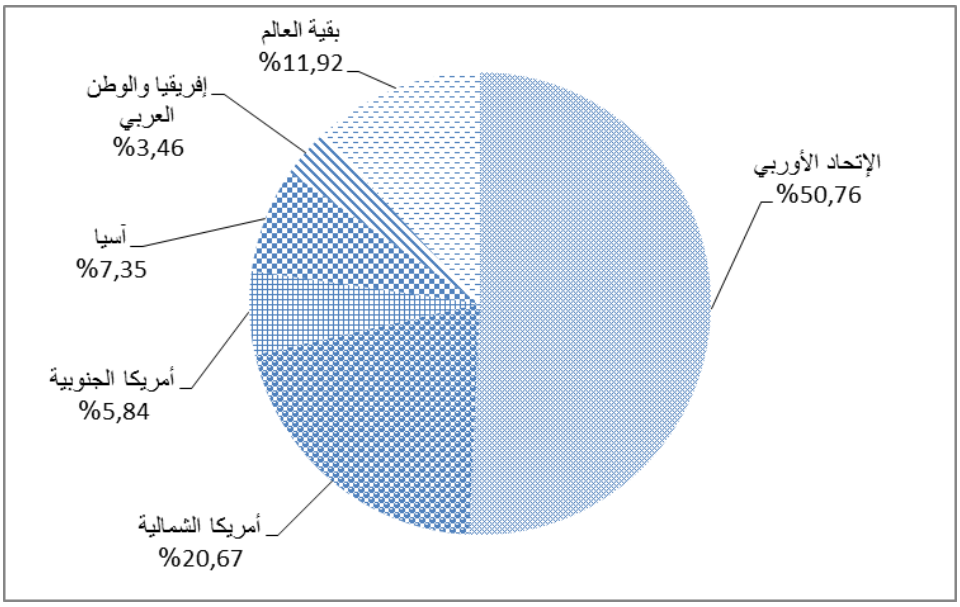

دائرة نسبية تمثل نسبة الواردات للجزائر حسب المناطق لسنة 2011

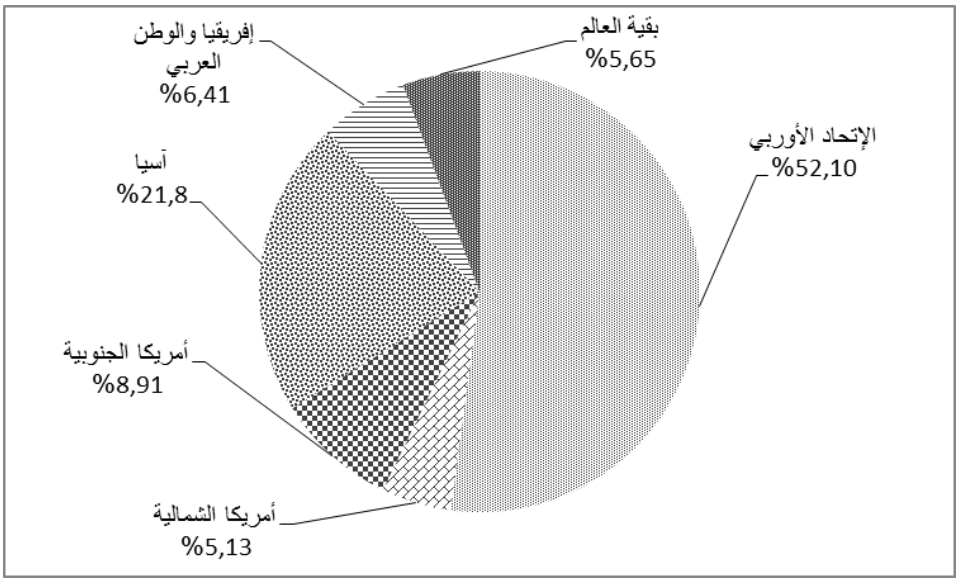

عناصر الإجابة (الموضوع الثاني)

عناصر الإجابة	العلامة مجزأة	العلامة مجموع
التاريخ : **الجزء الأول:** **1- شرح ما تحته خط:** **العلاقات الدولية:** هي مجموعة القواعد والأسس والاتفاقيات والمعاهدات التي تنظم العلاقات بين الدول والتي تميزت بالتوتر بين المعسكرين خلال الفترة الممتدة بين 1945 و1947.	0,50	06
المعسكرين: هما الكتلتان الشرقية بزعامة الاتحاد السوفييتي والغربية بزعامة الولايات المتحدة الأمريكية والمتصارعتان إيديولوجيا في إطار ما عرف بالحرب الباردة.	0,50	
برنامج مار شال: (أو مشروع مارشال) نسبة إلى كاتب الدولة الأمريكي للخارجية جورج مارشال، صدر في جوان 1947 قيمته أكثر من 12 مليار دولار ،أهدافه المعلنة مساعدة أوربا على إعادة بناء اقتصادها ، لكن الأهداف الخفية هي إنقاذ الشركات الأمريكية والهيمنة الاقتصادية ومن خلالها الهيمنة السياسية على العالم .	0,50	
الكومنفورم: مكتب الإخبار الشيوعي أسسه الاتحاد السوفييتي في أكتوبر 1947 ، يضم دول المعسكر الشيوعي لمواجهة المشاريع الأمريكية بجمع المعلومات عنها وتحريض الحركات الشيوعية ضد الرأسمالية.	0,50	
2- التعريف بالشخصيات: **ليونيد بريجنيف** (1906 -1982): أمين أول للحزب الشيوعي السوفييتي وزعيم الاتحاد السوفييتي بين 1964 و1982 وقع مع نيكسون معاهدة سالت1 سنة 1972 وسالت2 سنة 1979 مع جيمي كارتر، أنهى الانفراج بغزوه أفغانستان في ديسمبر1979.	0,50	
ريتشارد نيكسون (1913- 1994): رجل سياسي من الحزب الجمهوري، نائب الرئيس الأمريكي إيزنهاور بين 1953 و**1961**، انتُخب رئيسا للولايات المتحدة الأمريكية في 1968 وأعيد انتخابه سنة 1972 أقام علاقات مع الصين الشعبية وأنهى حرب الفييتنام سنة 1973 واستقال سنة 1974 على خلفية فضيحة ووترغيت.	0,50	
هواري بومدين (1932- 1978): مناضل ورجل دولة قائد الولاية الخامسة 1958 ، ثم قائدا للأركان 1960 ووزير للدفاع بعد استقلال الجزائر، نظم العملية التي أطاحت ببن بلة والتي حملت اسم التصحيح الثوري في 19 جوان 1965، وأصبح رئيسا للدولة ومرسي أسسها السياسة والاجتماعية والاقتصادية، اشتهر بنشاطه في إطار حركة عدم الانحياز وأحد أقطابها توفي في 27 ديسمبر 1978.	0,50	

عناصر الإجابة (الموضوع الثاني)

الجنرال جياب(1912–2015): قائد عسكري فيتنامي من أهم أبطال الثورة الفيتنامية، قائد معركة ديان بيان فو عام 1954، ووزير الدفاع من 1960 إلى 1980. — 0,50

3– ربط الأحداث بتواريخها وإبراز انعكاساته:

التاريخ	الحدث	الانعكاسات	
09 أوت 1945	إلقاء القنبلة الذرية على مدينة ناغازاكي	استسلام اليابان ونهاية الحرب العالمية الثانية.	0,50
20 أوت 1955	هجومات الشمال القسنطيني	تفنيد مزاعم الاستعمار وإعطاء نفس جديد للثورة وتدويلها.	0,50
19 مارس 1962	وقف إطلاق النار في الجزائر	استقلال الجزائر واستعادة السيادة الوطنية	0,50
22 مارس 1945	تأسيس جامعة الدول العربية	توحيد المواقف العربية من القضايا الدولية خاصة القضية الفلسطينية.	0,50

الجزء الثاني:

المقدمة: بزوال الخطر المشترك عند نهاية الحرب العالمية الثانية تجدد الصراع بين المعسكرين لفرض كل طرف لإيديولجيته. — 0,50

1– مظاهر الصراع في القارتين الأوربية والآسيوية بين 1947– 1954:

أ– **في أوربا:**

- انقسام أوربا إلى قسمين: أوربا الشرقية (الاشتراكية) وأوربا الغربية (الرأسمالية).
- تأسيس الكومونفورم والكومكون.
- أزمة برلين الأولى و انقسام ألمانيا.
- تأسيس حلف شمال الأطلسي.

4×0.25

ب– **في آسيا:**

- حرب الهند الصينية وتأسيس حلف جنوب شرق آسيا.
- أزمة كوريا .

2×0.25

2– أثر تطور أسلحة الدمار الشامل في مستقبل العلاقات بين المعسكرين:

- إدراك المعسكرين خطورة اندلاع حرب نووية بينهما.
- إدراك المعسكرين استحالة انتصار طرف على طرف آخر بفعل توازن الرعب النووي.
- اتساع نفوذ المعسكر الشيوعي خارج أوربا واستحالة القضاء عليه.

04

عناصر الإجابة (الموضوع الثاني)

- إدراك كل معسكر بضرورة تبني سياسة التعايش السلمي. - اقتناع كل معسكر بضرورة احترام مبادئ الآخر. - تغيير وسائل المواجهة من وسائل حربية إلى وسائل اقتصادية، دعائية وعلمية.	6×0,25	
الخاتمة: اشتداد الصراع بين المعسكرين وتطور وسائل الدمار هدد استقرار وسلامة العالم فكان التعايش السلمي ضرورة حتمية لتفادي المآسي.	0,50	
الجغرافيا : **الجزء الأول:** **1- شرح ما تحته خط:** **الاتحاد الأوربي:** تكتل اقتصادي وسياسي يجمع 28 دولة أوربية ظهر بهذه التسمية إثر التوقيع على معاهدة ماستريخت في 1991 وهو تطور للمجموعة الاقتصادية الأوربية.	0,75	
منطقة التبادل الحر: هي منطقة للتبادل بين الجزائر والاتحاد الأوربي بتسهيلات أو إعفاءات جمركية بهدف تحرير وتنشيط المبادلات التجارية.	0,75	
اتفاق الشراكة: اتفاقية بين الجزائر والاتحاد الأوربي تعطي للجزائر امتيازات في المعاملات التجارية والاقتصادية مع الاتحاد الأوربي قصد الاستفادة والمنفعة المتبادلة بين الطرفين.	0,75	
التعريفة الجمركية: هي الرسوم التي تفرض على السلع الأجنبية عند دخولها للأسواق المحلية بهدف حماية المنتوج المحلي وتختلف قيمة الرسوم حسب أهمية المادة المستوردة.	0,75	
2- التعليق على الجدولين: نلاحظ من خلال الجدولين الخاصين بصادرات وواردات الجزائر لسنة 2014 ما يلي: - معظم مبادلات الجزائر تتم مع العالم المتقدم.	0,25	
- ارتفاع نسبة المبادلات التجارية مع دول الاتحاد الأوربي.	0,25	
- ضعف المبادلات التجارية مع العالم المتخلف.	0,25	06
- أكبر نسبة من واردات الجزائر من الصين الشعبية وبعدها الاتحاد الأوربي.	0,25	
3- توقيع الدول المؤسسة والعضوة في مجموعة الثمانية: - الإنجاز.	3×0,50	
- العنوان.	0,25	
- المفتاح.	0,25	

عناصر الإجابة (الموضوع الثاني)

الجزء الثاني:		
المقدمة:		
تحتل الولايات المتحدة الأمريكية الصدارة العالمية في الميدان الاقتصادي بفعل توفرها على الإمكانات الطبيعية والبشرية وحسن استغلالها.	0,50	
1- دور الزراعة في الاقتصادي الأمريكي :		
– تساهم في الناتج الداخلي الخام.	0,25	
– تخفف من عجز الميزان التجاري.	0,25	
– تموِّن الكثير من الصناعات الغذائية والنسيجية.	0,25	
– تخلق اقتصادا متكاملا ومتوازنا.	0,25	
– تحافظ على قوة الدولار الأمريكي.	0,25	
– تغطي السوق المحلية .	0,25	
2- أثر قوة الاقتصاد الأمريكي في الاقتصاد العالمي:		
– التحكم في التجارة العالمية.	0,25	
– اعتماد الدولار الأمريكي كعملة أساسية مرجعية في التعاملات الاقتصادية الدولية.	0,25	
– هيمنة البورصات الأمريكية على تحديد أسعار المواد الإستراتيجية.	0,25	
– ارتباط الاقتصاد العالمي بالاقتصاد الأمريكي إيجابا وسلبا.	0,25	04
– التأثير الكبير في المؤسسات المالية العالمية.	0,25	
– هيمنة الشركات الأمريكية على نسبة كبيرة من الاقتصاد العالمي إنتاجا، تسويقا واستثمارا	0,25	
الخاتمة:		
الاستغلال الجيد للإمكانات المتوفرة مكَّن الولايات المتحدة الأمريكية من الهيمنة على الاقتصاد العالمي.	0,50	
ملاحظة: تقبل الإجابات الصحيحة الأخرى.		

عناصر الإجابة (الموضوع الثاني)
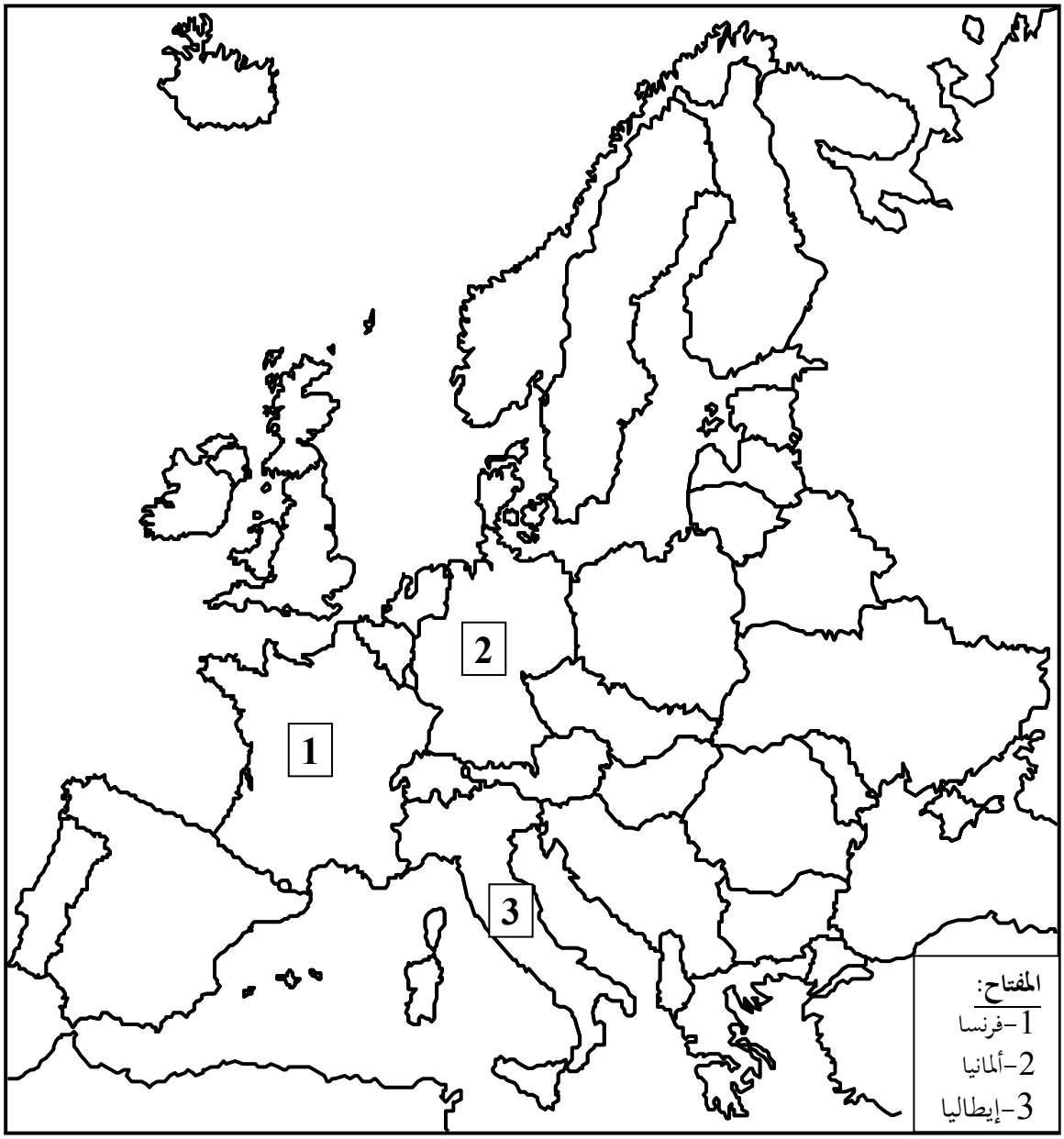
توقيع الدول المؤسسة للسوق الأوربية المشتركة 1957 والعضوة في مجموعة الثمانية